All Rights Reserved

බස්නාහිර පළාත් අධ්‍යාපන දෙපාර්තමේන්තුව
மேல் மாகாணக் கல்வித் திணைக்களம்
Department of Education - Western Province

වර්ෂ අවසාන ඇගයීම
ஆண்டிறுதி மதிப்பீடு - 2026
Year End Evaluation

ශ්‍රේණිය தரம் Grade	10	විෂය பாடம் Subject	භූගෝල විද්‍යාව	පත්‍රය வினாத்தாள் Paper	I/II	කාලය நேரம் Time	පැය 03

පත්‍රය I

උපදෙස් :

- මෙම ප්‍රශ්න පත්‍රය ප්‍රශ්න 40කින් සමන්විතයි.
- එක් එක් ප්‍රශ්නය සඳහා දී ඇති උපදෙස්වලට අනුකූලව සියලු ම ප්‍රශ්නවලට පිළිතුරු මෙම පත්‍රයේ ම සපයන්න.

• අංක 01 සිට 05 තෙක් ප්‍රශ්නවලට එක් එක් හිස්තැනට ගැළපෙන පිළිතුර වරහන් තුළින් තෝරා තිත් ඉර මත ලියන්න.

01. මිනිස් කටයුතු කෙරෙහි බලපාන සියලු කාලගුණික සංසිද්ධි ..... තුළ ඇති වේ. (පරිවර්තිගෝලය / අපරවර්තිගෝලය / මෙසෝගෝලය)

02. ඔස්ට්‍රේලියා මහද්වීපික තටකය තුළ ..... දූපත පිහිටා ඇත.
(මැඩගස්කරය / ජාවා / තස්මේනියා)

03. නිවර්තන කලාපයේ දක්නට ඇති විශේෂිත දේශගුණ වර්ගයක් ලෙස ..... දේශගුණය දැක්විය හැකිය. (තුන්ද්‍රා / මෝසම් / මධ්‍යධරණී)

04. ශ්‍රී ලංකාවේ රබර් පර්යේෂණ ආයතනය ..... ප්‍රදේශයේ පිහිටා ඇත.
(තලවකැලේ / පුණුවිල / අගලවත්ත)

05. ලෝක විද්‍යුත් නිෂ්පාදන කර්මාන්තයේ ප්‍රමුඛ රට ..... යි.
(චීනය / ජපානය / දකුණු කොරියාව)

• අංක 06 සිට 10 තෙක් දී ඇති එක් එක් ප්‍රකාශය නිවැරදි නම්, 'නි' යන්න වටා ද වැරදි නම්, 'වැ' යන්න වටා ද රවුමක් අඳින්න.

06. වායුගෝලය තුළ වැඩි ම වායු ප්‍රතිශතයක් ඇත්තේ නයිට්‍රජන් වායුවයි. (නි / වැ)

07. භූ තැටි, ප්‍රාවරණය තුළ ක්‍රියාත්මක වන සංවහන ධාරාවල බලපෑමෙන් චලනය වේ. (නි / වැ)

08. ලෝකයේ යකඩ සහ වානේ නිෂ්පාදනයේ ප්‍රමුඛ රට ඉන්දියාව යි. (නි / වැ)

09. 'කුරුණෑගල' මධ්‍යම කඳුකර සංචාරක කලාපයට අයත් ප්‍රදේශයකි. (නි / වැ)

10. 1 : 50 000 භූ ලක්ෂණ සිතියම්වල 'දිගා සටහන' වට කිරුවේ පහළ කොටසේ දක්වයි. (නි / වැ)

• අංක 11 සිට 16 තෙක් ප්‍රශ්නවලට හිස්තැනට සුදුසු වචන යොදා වාක්‍ය සම්පූර්ණ කරන්න.

11. වායුගෝලයේ අඩු ම උෂ්ණත්වය පවතින්නේ ..... ගෝලය තුළ ය.

12. මහාද්වීපික කබොල ..... පාෂාණවලින් සමන්විත වේ.

Past Papers Wiki

17. මිලට ගෙවූයේ මූ සැබෑ _____ මිලේ ප්‍රමාණය වේ.

18. ඒ වගෙම සඳහා _____ සහ කෙන්ස වේ.

19. ජනගහණ ඝනත්වය හා _____ ඒ ප්‍රදේශවේ ජනතා ජීවනෝපායට අගක් වූවද්‍ය වේ.

20. 1 : 50 000 පරිමාණයේ දී ප්‍රස්තාරය මිනිමැතියේ තිබුනේ වර්ගඵලය _____ km² ක්.

• ඇසු 17 සිට 20 තෙක් ප්‍රශ්නවලට පිළිතුරු සැපයීම සඳහා දී ඇති ප්‍රස්තාර සටහන උපයෝගී කර ගන්න.

2009 - 2010 කාලයේ ඉඩමක වගාවේ මිලියනය තිබිය හිස්සැදෙන



21. ඉහත ප්‍රස්තාරයෙහි අනුව වැඩි ම තිරිඟු නිෂ්පාදනයක් සිදු කරනු ලබන්නේ _____ විසිනි.

22. මෙයින් මිලියන 400 වඩා වැඩි තිරිඟු නිෂ්පාදනයක් සිදු කරන රටවල් ගණන _____ කි.

23. අඩු ම තිරිඟු නිෂ්පාදනයක් සිදුකරනු ලබන්නේ _____ විසිනි.

24. ඇමෙරිකා එක්සත් ජනපදයේ තිරිඟු නිෂ්පාදනයට සමාන තිරිඟු නිෂ්පාදනයක් _____ විසින් සිදු කරයි.

• ඇස 21 සිට 25 තෙක් දී ඇති ප්‍රශ්නවල 'අ' සහ 'ආ' ලෙස තීරු දෙකක් දැක්වේ. 'අ' තීරුවේ ඇති කොටසකුරු අනුව 'ආ' තීරුවේ ඇති කොරතුරු ගැළපූ විට නිවැරදි අනුපිළිවෙළ දැක්වෙන පිළිතුරට සිහි අංකය ඉදිරියේ ඇති කිස් ඉර මත ලියා දක්වන්න.

21.

'අ'	'ආ'
කෙම්පය	පර්යේෂණායතනය පිහිටි ස්ථානය
1. පී	A - මාතලේ
2. තොල්	B - අම්බිලන්තොට
3. පුළු අපනයන බෝග	C - අගලවත්ත
	D - ගඟුරිල

i. B C D ii. B D A iii. C D A iv. B C A (.....)

22.

'අ'	'ආ'
කඳවැටිය	ගෙදරියය
1. ඇල්ප්ස්	A - ආසියා
2. පියකන්ඩවත්	B - අප්‍රිකා
3. හිමාලය	C - යුරෝපා
	D - මැක්ලේලියා

i. C B A ii. D B A iii. B C A iv. C D A (.....)

23.

'අ'	'ආ'
සහනය	මිනිසා ඇති මූලික
1. ඉන්දියන් සහනය	A - තැරියන් මූලික
2. තැබියන් සහනය	B - එරල් මූලික
3. අන්ධාරෝමික් සහනය	C - ඇරබ් මූලික
	D - අරාමි මූලික

i. BCA ii. DAB iii. DCB iv. DCA (....)

24.

'අ'	'ආ'
ගව	ඒ වගා කරන ප්‍රදේශය
1. ඉකෝලිය	A - ඔළුවේ වාලිං සංඛ්‍යා නිමිතය
2. ඔස්ට්‍රේලියාව	B - සැතුමැන්ටෝ සංඛ්‍යා නිමිතය
3. අප්‍රිකාව	C - පෝ සංඛ්‍යා නිමිතය
	D - නයිල් ඩෙල්ටාව

i. CAB ii. CAD iii. BAC iv. ACD (....)

25.

'අ'	'ආ'
ඛනිජ වර්ගය	වාහන ප්‍රදේශය
1. මෙල්ල මැටි	A - කොරලැස්ගමුව
2. ඔකිරන්	B - කහටගස
3. පෙවලින් මැටි	C - දෙදියවල
	D - රත්නපුර

i. CAB ii. ABC iii. CBD iv. CBA (....)

• අංක 26 සිට 37 තෙක් ඇති එක් එක් ප්‍රශ්නයට දී ඇති විරණ අතරින් නිවැරදි හෝ වඩාත් හැලපෙන හෝ පිළිතුර තෝරා එට ඔබේ අංකය ඉදිරියේ ඇති කිත් ඉර මත ලියා දක්වන්න.

26. පරිසර පහන සිසුනාව සිදුවන වායුගෝලීය ස්ථරය කුමක් ද?
i. පරිවර්ති ගෝලය ii. අපරිවර්ති ගෝලය
iii. මෙසෝ ගෝලය iv. තාප ගෝලය (....)

27. ශ්‍රී ලංකා ගෝලයේ භූ නැටි අතරින් මැඩගස්කර් දූපත් පිහිටා ඇත්තේ කුමන භූ නැටියේ ද?
i. යුරේසියානු භූ නැටියේ ය ii. ඉන්දු ඔස්ට්‍රේලියානු භූ නැටියේ ය
iii. අප්‍රිකානු භූ නැටියේ ය iv. දකුණු ඇමරිකානු භූ නැටියේ ය (....)

28. ශ්‍රී ලංකාවේ සිරි ගව සම්පත් නුවරමාරු මධ්‍යස්ථානය පිහිටුවා ඇත්තේ කොහේ ද?
i. අම්බේවල ii. ජීවනපලාන iii. වල්පිට iv. තනන්විල (....)

29. ශ්‍රී ලංකාවේ අඩු ම ජල ප්‍රමාණයක් වී වගාවට සොඳා ඇති දිස්ත්‍රික්කය කුමක් ද?
i. මහනුවර ii. මන්නාරම iii. කෑගල්ල iv. නුවරඑළිය (....)

30. ශ්‍රී ලංකාවේ කෘෂිකර්මාන්තය ආශ්‍රිත 'මයිටා ආකුමණ' බහුල මෝඩ වර්ගය කුමක් ද?
i. රබර් ii. තේ iii. පොල් iv. ඔව ඉරිඟු (....)

31. පෘථිවි ප්‍රාවරණය හා තරය වෙන් කරන සීමාව හඳුන්වන නම කුමක් ද?
i. ගුටෙන්බර්ග් අසන්තතිය ii. මොහොරොවිස්ක් අසන්තතිය
iii. කොන්රාඩ් අසන්තතිය iv. ලේමන් අසන්තතිය (....)

32. ශ්‍රී ලංකාවේ ධීවර කර්මාන්තය තුළ වැඩි ම මත්ස්‍ය නිෂ්පාදනයක් ලබා ගන්නේ කුමන කලාපයෙන් ද?
i. ගැඹුරු මුහුදු කලාපයෙනි ii. වෙරළාසන්න කලාපයෙනි
iii. කිවුල්දිය ආශ්‍රිත ප්‍රදේශවලිනි iv. ගංගා, වැව්, පොකුණු වලිනි (....)

PAST PAPERS WIKI

33. ශ්‍රී ලංකා සංචාරක අධිකාරිය විසින් හඳුන්වා දී ඇති පරිදි 'පුරාණ නගර' සංචාරක කලාපයට අයත් නගර ඇතුළත් පිළිතුර කුමක් ද?

i. සීගිරිය හා මහනුවර
ii. මහනුවර හා රත්නපුරය
iii. අනුරාධපුරය හා කතරගම
iv. නුවරඑළිය හා සීගිරිය (.....)

34. 1 : 50 000 පරිමාණයට අනුව දිග 2 cm ක් හා පළල 2 cm ක් වූ චතුරස්‍රයක සැබෑ භූමිය තුළ වර්ග ප්‍රමාණය කොපමණ ද?

I. 4 km^2 ii. 3 km^2 iii. 2 km^2 iv. 1 km^2 (.....)

35. භූ ලක්ෂණ සිතියම්වල කළු පැහැයෙන් දැක්වෙන සංකේතය මින් කුමක් ද?

i. උසාවිය
ii. තැපැල් කාර්යාලය
iii. හෝටලය
iv. පොලීසිය (.....)

36. පරිවහනය සඳහා විල් ජලය භාවිතා කළ හැකි වීම හා විල් අවටින් මූලික අමුද්‍රව්‍ය සපයාගත හැකි වීම මත යකඩ හා වානේ කර්මාන්තය ස්ථානගත වී ඇති රට කුමක් ද?

i. චීනය
ii. රුසියාව
iii. ඇමරිකා එක්සත් ජනපදය
iv. ඉන්දියාව (.....)

37. ශ්‍රී ලංකාවේ රබර් වගාව ව්‍යාප්ත කිරීමේ අරමුණින් නව වගා බිම් හඳුන්වා දුන් දිස්ත්‍රික්කය ඇතුළත් පිළිතුර කුමක් ද?

i. ගම්පහ හා කොළඹ
ii. වව්නියාව හා මුලතිව්
iii. ගාල්ල හා ගම්පහ
iv. රත්නපුර හා කෑගල්ල (.....)

- පහත A , B , C හා D මගින් දක්වා ඇති එකිනෙකට සම්බන්ධ මාතෘකා යුගල හොඳින් අධ්‍යයනය කර, අංක 38 සිට 40 තෙක් ප්‍රශ්නවලට පිළිතුරු සපයන්න.

A - 1. පාංශු ඛාදනය
2. කෘෂි අස්වැන්න

B - 1. වායු දූෂණය
2. පොසිල ඉන්ධන දහනය

C - 1. ගෝලීය උෂ්ණත්වය
2. සාගර ජල මට්ටම

D - 1. උෂ්ණත්වය
2. උන්නතාංශය

38. පළමුවැන්නේ වැඩි වීම දෙවැන්නේ අඩු වීමට හේතුවන මාතෘකා යුගලය කුමක් ද?

i. A ii. B iii. C iv. D (.....)

39. පළමුවැන්නේ වැඩි වීම දෙවැන්නේ වැඩි වීමට හේතුවන මාතෘකා යුගලය කුමක් ද?

i. A ii. B iii. C iv. D (.....)

40. දෙවැන්නේ අඩු වීම පළමු වැන්නේ අඩු වීමට හේතුවන මාතෘකා යුගලය කුමක් ද?

i. A ii. B iii. C iv. D (.....)

(ලකුණු 1x40=40)

All Rights Reserved

බස්නාහිර පළාත් අධ්‍යාපන දෙපාර්තමේන්තුව
மேல் மாகாணக் கல்வித் திணைக்களம்
Department of Education - Western Province

වර්ෂ අවසාන ඇගයීම
ஆண்டிறுதி மதிப்பீடு - 2026
Year End Evaluation

ශ්‍රේණිය / தரம் / Grade	විෂය / பாடம் / Subject	පත්‍රය / வினாத்தாள் / Paper
10	භූගෝල විද්‍යාව	II

- මෙම ප්‍රශ්න පත්‍රය I සහ II වශයෙන් කොටස් දෙකකින් සමන්විත ය.
- I කොටසේ 01 ප්‍රශ්නය අනිවාර්ය වේ. එහි (අ), (ආ) සහ (ඉ) කොටස් සඳහා ම පිළිතුරු සැපයිය යුතුය.
- II කොටසින් ප්‍රශ්න හතරකට පිළිතුරු සැපයිය යුතුය.
- පිළිතුරු සැපයිය යුතු මුළු ප්‍රශ්න සංඛ්‍යාව පහකි.

I කොටස

01. (අ) 1 : 50 000 භූ ලක්ෂණ සිතියම පිළිබඳ අවබෝධය ඇසුරෙන් පහත සඳහන් ප්‍රශ්නවලට පිළිතුරු සපයන්න. පිළිතුරු ලිවීම සඳහා ඔබ වෙත සපයා ඇති කවදාසිය (පිටු අංක 8) යොදා ගන්න.
අංක I සිට IV තෙක් ඇති ප්‍රශ්නවලට ගැළපෙන පිළිතුර වරහන් තුළින් තෝරා ලියන්න.

I) භූ ලක්ෂණ සිතියමක මුහුණත තොරතුරුවල ඇතුළත් වන සංස්කෘතික ලක්ෂණයක් වන්නේ කුමක් ද?
(වනාන්තර / ලඳු කැලෑ / වගාබිම්) (ලකුණු 01)

II) 1 : 50 000 භූ ලක්ෂණ සිතියමක දැකිරු වර්ණයෙන් දැක්වෙන ලක්ෂණයක් වන්නේ කුමක් ද?
(වැව් බැම්ම / පරිපාලන මායිම් / ගෙවතු වගාව) (ලකුණු 01)

III) සැබෑ භූමියේ 1 km ක දුරක් 1 : 50 000 භූ ලක්ෂණ සිතියමක දක්වා ඇති දුර ප්‍රමාණය වන්නේ කොපමණ ද?
(සෙ.මී. 2 / සෙ.මී. 1 / සෙ.මී. 4) (ලකුණු 01)

IV) දිගා සටහනක තරු සලකුණකින් කෙළවර වන රේඛාවකින් දක්වා ඇති උතුර හඳුන්වන නම කුමක් ද?
(ජාල උතුර / සැබෑ උතුර / චුම්භක උතුර) (ලකුණු 01)

V) සිතියම් වර්ග දෙක නම් කරන්න. (ලකුණු 02)

VI) 1 : 50 000 භූ ලක්ෂණ සිතියමක වට තීරුවේ ඉහළ කොටසේ ඇති තොරතුරු වර්ග දෙකක් ලියන්න. (ලකුණු 02)

VII) පහත දැක්වෙන ලක්ෂණ පෙන්වීමට භාවිතා කරන සංකේත නිවැරදි වර්ණ භාවිතා කර ඇඳ දක්වන්න.
A) වාරිමාර්ග ඇළ B) රෝහල (ලකුණු 02)

Past Papers Wiki

(අ) මෙම වෙන සඳහා ඇති දෙවන සිසියම් තොඳින් අධ්‍යයනය කර, පහත සඳහන් ප්‍රශ්නවලට පිළිතුරු සපයන්න.

ඉංග (I) සිට (V) තෙක් එක් එක් ප්‍රශ්නයට ඉදිරියෙන් ඉංග්‍රීසි අක්ෂර තුනක් දක්වා ඇත. නිවැරදි පිළිතුර දැක්වෙන අක්ෂරය සිසියමෙන් තෝරා යාබදව ඇති හිඟමින තොරුරු තුළ ලියා දක්වන්න.

(I)	මහා මාවත කඳු	(A) , (B) , (C)
(II)	අරාබි මුහුදු	(D) , (E) , (F)
(III)	නවසීලන්තය	(G) , (H) , (J)
(IV)	පිටිකැහැ විල	(K) , (L) , (M)
(V)	විශෙෂිට සානුව	(R) , (S) , (T) (ලකුණු 05)

(ඉ) මෙම වෙන සඳහා ඇති ශ්‍රී ලංකා සිසියම් තොඳින් අධ්‍යයනය කර, පහත සඳහන් ප්‍රශ්නවලට පිළිතුරු සපයන්න.

ඉංග (I) සිට (V) තෙක් එක් එක් ප්‍රශ්නයට ඉදිරියෙන් ඉංග්‍රීසි අක්ෂර තුනක් දක්වා ඇත. නිවැරදි පිළිතුර දැක්වෙන අක්ෂරය සිසියමෙන් තෝරා යාබදව ඇති හිඟමින තොරුරු තුළ ලියා දක්වන්න.

(I)	කුරුණෑගල දිස්ත්‍රික්කය	(A) , (B) , (C)
(II)	තලවකැලේ තේ පර්යේෂණ ආයතනය	(D) , (E) , (F)
(III)	ආරුගම් බොක්ක	(G) , (H) , (J)
(IV)	කුඩාවැල්ල ධීවර වරාය	(K) , (L) , (M)
(V)	මන්නාරම් දූපත	(R) , (S) , (T) (ලකුණු 05)

II කොටස

02. i. වායු ගෝලයේ ස්තර දැක්වෙන මෙම රූප සටහනේ A හා B ලෙස නම් කර ඇති ස්ථර දෙක පිළිවෙලින් නම් කරන්න. (ලකුණු 02)

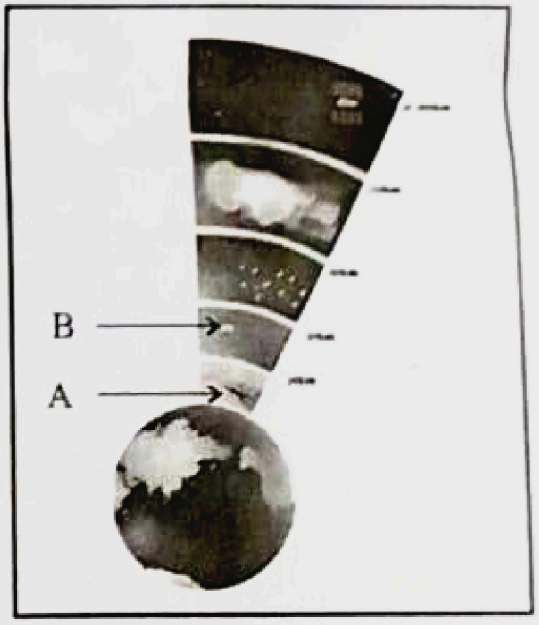

ii. A ස්ථරයෙහි හඳුනාගත හැකි විශේෂ ලක්ෂණ තුනක් නම් කරන්න. (ලකුණු 03)

iii. වායු ගෝලය දූෂණය වීම කෙරෙහි බලපාන මානව ක්‍රියාකාරකම් තුනක් සඳහන් කර ඉන් එකක් කෙටියෙන් පැහැදිලි කරන්න. (ලකුණු 05)

03. i. දේශගුණය යනු කුමක් ද? (ලකුණු 02)

ii. දේශගුණ වර්ගයක් නිරණය වීම කෙරෙහි බලපාන සාධක තුනක් නම් කරන්න. (ලකුණු 03)

iii. නිවර්තන දේශගුණයේ විශේෂ ලක්ෂණ දෙකක් කෙටියෙන් විස්තර කරන්න. (ලකුණු 05)

04. i. වතු කෘෂිකර්මය යටතේ වගා කරන භෝග වර්ග දෙකක් නම් කරන්න. (ලකුණු 02)

ii. රබර් වගාව ව්‍යාප්තිය කෙරෙහි බලපාන භෞතික සාධක තුනක් නම් කරන්න. (ලකුණු 03)

iii. ශ්‍රී ලංකාවේ වී ගොවියා මුහුණදෙන ගැටලු තුනක් සඳහන් කර ඉන් එකක් විස්තර කරන්න. (ලකුණු 05)

05. i. ගෘහ කර්මාන්ත ආශ්‍රිත විශේෂ ලක්ෂණ දෙකක් නම් කරන්න. (ලකුණු 02)

ii. පහත දැක්වෙන ප්‍රදේශ ප්‍රසිද්ධ වී ඇති කර්මාන්ත වර්ගය නම් කරන්න.

(A) මොරටුව

(B) අම්බලන්ගොඩ

(C) පිළිමතලාව (ලකුණු 03)

iii. ශ්‍රී ලංකාවේ ගෘහ කර්මාන්ත ආශ්‍රිතව හඳුනාගෙන ඇති ගැටලු තුනක් නම් කර, ඉන් එකක් කෙටියෙන් විස්තර කරන්න. (ලකුණු 05)

06. i. ලෝකයේ යකඩ හා වානේ නිෂ්පාදනය සිදුකරන ප්‍රධාන රටවල් දෙකක් නම් කරන්න. (ලකුණු 02)

ii. කර්මාන්තයක් ස්ථානගත වීමට බලපාන සාධක තුනක් නම් කරන්න. (ලකුණු 03)

iii. යකඩ හා වානේ කර්මාන්තයේ විශේෂ ලක්ෂණ තුනක් සඳහන් කර, ඉන් එකක් කෙටියෙන් විස්තර කරන්න. (ලකුණු 05)

07. i. සත්ත්ව පාලනය යටතේ ඇති කරනු ලබන සත්ත්ව වර්ග දෙකක් නම් කරන්න. (ලකුණු 02)

ii. ලෝකයේ කිරිපට්ටි පාලනය දියුණු වීම කෙරෙහි බලපාන සාධක තුනක් නම් කරන්න. (ලකුණු 03)

iii. ශ්‍රී ලංකාව තුළ සත්ත්ව පාලනය කෙරෙහි විශේෂ අවධානයක් යොමු වීමට බලපා ඇති හේතු තුනක් සඳහන් කර, ඉන් එකක් කෙටියෙන් පැහැදිලි කරන්න. (ලකුණු 05)

08. i. පෙට්‍රෝ රසායන කර්මාන්තය යනු කුමක් ද? (ලකුණු 02)

ii. පෙට්‍රෝ රසායන කර්මාන්තය ආශ්‍රිත නිෂ්පාදන තුනක් නම් කරන්න. (ලකුණු 03)

iii. පෙට්‍රෝ රසායන කර්මාන්තය ආශ්‍රිත ගැටලු තුනක් සඳහන් කර, ඉන් එකක් කෙටියෙන් විස්තර කරන්න. (ලකුණු 05)

(අ)



I
II
III
IV
V
5

(ආ)

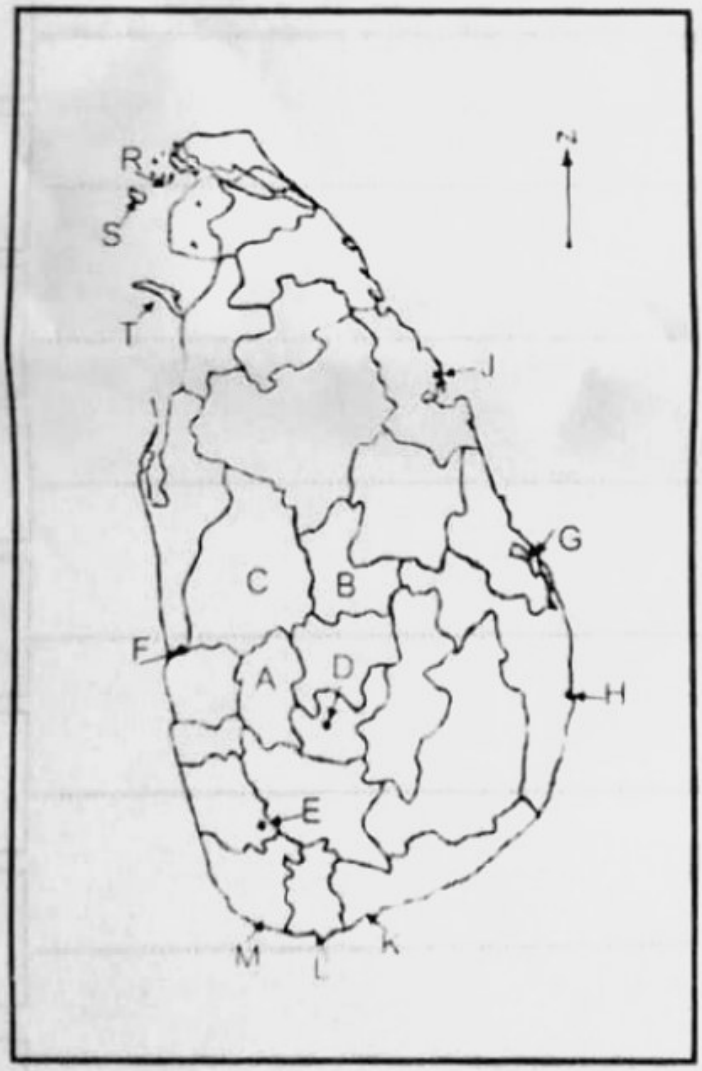

I
II
III
IV
V
5

1) (අ) $\frac{}{10}$ (ආ) $\frac{}{5}$ (ඇ) $\frac{}{5}$ = $\frac{}{20}$

Past Papers Wiki

10 ශ්‍රේණිය - භූගෝල විද්‍යාව - පිළිතුරු පත්‍රය

I පත්‍රය

01.	පරිවර්තී	02.	තස්මේනියා	03.	මෝසම්				
04.	අගලවත්ත	05.	චීනය	06.	නි				
07.	නි	08.	වැ	09.	වැ	10.	නි	11.	මෙසෝ	12.	ග්‍රැනයිට්
13.	7	14.	දියළු	15.	හලාවත	16.	1000	17.	චීනය	18.	4
19.	ආජන්ටිනාව	20.	රුසියාව	21.	ii	22.	i	23.	iv	24.	ii
25.	iv	26.	i	27.	iii	28.	ii	29.	iv	30.	iii
31.	i	32.	ii	33.	i	34.	iv	35.	iv	36.	iii
37.	ii	38.	i	39.	iii	40.	ii				

II පත්‍රය

01. (අ) I) වගාබිම් — ලකුණු 01
II) වැව් බැම්ම — ලකුණු 01
III) සෙ.මී. 2 — ලකුණු 01
IV) සැබෑ උතුර — ලකුණු 01
V) භූ ලක්ෂණසිතියම්
තේමා සිතියම් — ලකුණු 02
VI) සිතියම් වර්ගය
සිතියමේ නම
සිතියම් අංකය — ලකුණු 02
VII) A) ⊔⊔⊔⊔⊔⊔⊔⊔ (නිල් පැහැය) — ලකුණු 02
B) + (රතු පැහැය)

(ආ) I) B
II) D
II) H
II) L
II) R — ලකුණු 05

(ඉ) I) C
II) D
II) H
II) K
II) T — ලකුණු 05

02. i. A - පරිවර්තී ගෝලය B - අපරිවර්තී ගෝලය — ලකුණු 1x2= 02

ii. පෘථිවි පෘෂ්ඨයේ සිට 8 km - 12 km පමණ දක්වා ඉහළට විහිදේ
පරිසර පතන සීඝ්‍රතාව සිදු වේ
කාලගුණික සංසිද්ධි සිදු වේ
සාමාන්‍ය ගුවන් යානා පියාසර කරයි
පරිවර්තී ගෝලයේ පැවැත්මට ඉතා වැදගත් ය
ඉහළ සීමාව පරිවර්තී මණ්ඩලයයි — ලකුණු 1x3= 03

iii. පොලිතීන් ප්ලාස්ටින් පිළිස්සීම
පැරණි රථ වාහන භාවිතය
කර්මාන්තශාලාවල දුම් වායුගෝලයට එකතු වීම .... ආදී
කරුණු 3ට ලකුණු 03
එකක් විස්තර කිරීමට ලකුණු 02 — ලකුණු 3+2= 05

03. i. දීර්ඝ කාලයක් තුළ පවත්නා වායුගෝලීය සාමාන්‍ය තත්ත්වය දේශගුණය නම් වේ — ලකුණු 02

ii. උෂ්ණත්වය / වර්ෂාපතනය / වර්ෂාපතනය ලැබෙන ක්‍රම / වර්ෂාපතනය ලැබෙන කාල සීමාව — ලකුණු 1x3= 03

iii. 18^0C ට වැඩි උෂ්ණත්වයක් පවතී / ශීත සෘතුවක් නැත
අවුරුද්ද පුරා පැතිරුණු අධික වර්ෂාපතනයක් ඇත
කර්කටක නිවර්තනයත් මකර නිවර්තනයත් අතර මෙම දේශගුණය පැතිරී ඇත
කරුණු 3ක් විස්තර කර ඇත්නම් ලකුණු 03 — ලකුණු 2+3= 05

04. i. තේ / රබර් / උක් / කපු / කෝපි / කොකෝවා / පොල් ආදිය ලකුණු 1x2= 02

ii. උෂ්ණත්වය 27^0C පමණ
2000 mm පමණ වර්ෂාපතනය
ලැටරයිට් හෝ කබොක් මිශ්‍ර රතු පස ලකුණු 1x3= 03

iii. ඉඩම් හිඟය හා ඉඩම් කැබලි වීම කුඹුරු ඉඩම් ගොඩ කිරීම
එකම බිමක දීර්ඝ කාලීනව වගා කිරීම නිසා අස්වැන්න අඩු වීම
බිම් ඒකකයකින් ලැබෙන අස්වැන්න අඩු වීම පොහොර මිල ඉහළ යාම
ජල හිඟය , ගංවතුර තත්ත්ව නිසා වන හානි වී සඳහා නිසි මිලක් නොමැති වීම
කෘමි හා සතුන්ගෙන් සිදුවන හානි .... ආදී
කරුණු 3ට ලකුණු 03
එකක් විස්තර කිරීමට ලකුණු 02 ලකුණු 3+2= 05

05. i. සුළු ආයෝජනයක් සහිත වීම බොහෝ විට පවුලේ ශ්‍රමය මත යැපීම
ව්‍යවසායකයාගේ නිවස තුළ හෝ ඒ ආසන්නව පවත්වා ගෙන යාම
කුඩා අත් යන්ත්‍ර හා සරල විදුලිමය යන්ත්‍ර භාවිතා වීම
බොහෝ විට සාම්ප්‍රදායික ශිල්ප ක්‍රම භාවිතය .... ආදී ලකුණු 1x2= 02

ii. A - ලී බඩු B - වෙස් මුහුණු C - පිත්තල කැටයම් ලකුණු 1x3= 03

iii. කාර්මික අමුද්‍රව්‍ය ලබා ගැනීමේ ගැටලු ශ්‍රමය හිඟ වීම
ආදේශන භාණ්ඩවලින් ඇති තරඟය නිෂ්පාදන වියදම් අධික වීම
නිෂ්පාදන අලෙවිකර ගැනීම පිළිබඳ ගැටළු .... ආදී
කරුණු 3ට ලකුණු 03
එකක් විස්තර කිරීමට ලකුණු 02 ලකුණු 3+2= 05

06. i. බලශක්තිය / අමුද්‍රව්‍ය / ප්‍රවාහනය / යටිතල පහසුකම් / ශ්‍රමය / ප්‍රාග්ධනය /
වෙළඳපොළ / රාජ්‍ය ප්‍රතිපත්ති ලකුණු 1x2= 02

ii. චීනය / ජපානය / එක්සත් රාජධානිය / රුසියාව / ඉන්දියාව / දකුණු කොරියාව /
පර්මනිය ලකුණු 1x3= 03

iii. යකඩ හා වානේවල විවිධ ගුණ ලක්ෂණ
වෙනත් ලෝහවලට මිශ්‍ර කිරීමෙන් ගුණාත්මකභාවය වැඩි කළ හැකි වීම
භාවිතයෙන් ඉවත් කළ පසු ප්‍රතිචක්‍රීකරණය කළ හැකි වීම
විවිධ වූ නිෂ්පාදන සඳහා භාවිතා කිරීම
නිෂ්පාදන කටයුතු නවීකරණය වී තිබීම .... ආදී
කරුණු 3ට ලකුණු 03
එකක් විස්තර කිරීමට ලකුණු 02 ලකුණු 3+2= 05

07. i. ගවයින් / බැටළුවන් / එළුවන් / ඌරන් / කුකුළන් ලකුණු 1x2= 02

ii. තණබිම්වල ව්‍යාප්තිය පුහුණු ශ්‍රමය වෙළඳ පොළ
ජල පහසුව නව තාක්ෂණය ලකුණු 1x3= 03

iii. ජනතාවගේ පෝෂණ මට්ටම ඉහළ නැංවීම
ග්‍රාමීය ජනයාට රැකියා අවස්ථා ලබා දීම අතිරේක ආදායම් මාර්ගයක් වීම
කෘෂිකර්මයට අවශ්‍ය පොහොර ලබා දීම විදේශ විනිමය ඉතිරි කිරීම .... ආදී
කරුණු 3ට ලකුණු 03
එකක් විස්තර කිරීමට ලකුණු 02 ලකුණු 3+2= 05

.08. i. පෙට්‍රෝලියම් පිරිපහදුවේ දී පෙට්‍රල්, ඩීසල්, භූමිතෙල් යන ද්‍රව ඉන්ධන හා ගෑස් ලබා ගැනීමෙන් පසුව ඉතිරිවන ද්‍රව්‍ය ඇසුරෙන් කෙරෙන නිෂ්පාදන කර්මාන්ත පෙට්‍රෝ රසායන කර්මාන්ත නම් වේ. ලකුණු 02

ii. ප්ලාස්ටික්, කෘමි නාශක, රසායනික පොහොර, ඖෂධ වර්ග, ලිහිසි තෙල්, සුවඳ විලවුන්ඩ
තීන්ත වර්ග, පැරපින් ඉටි, රූපලාවණ්‍ය ආලේපන .... ආදී ලකුණු 1x3= 03

iii. නිෂ්පාදන වියදම වැඩි නිසා භාණ්ඩ මිල ඉහළ යාම වෙළඳ පොළ තරඟය
ආනයනික තෙල් පිරිපහදුවේ ප්‍රමාණය මත අමුද්‍රව්‍ය ප්‍රමාණය තීරණය වීම
පරිසර දූෂනය ප්‍රාග්ධන හිඟය .... ආදී
කරුණු 3ට ලකුණු 03
එකක් විස්තර කිරීමට ලකුණු 02 ලකුණු 3+2= 05

WWW.PastPapers.Wiki
Downloaded From Past Papers WiKi - Sri Lanka's Largest Past Papers Library